No. of Printed Pages : 15

Sl. No. 5697453

তৃতীয় দিন

# গুণোৎসব, দ্বিতীয় পর্যায় - ২০২৫

Set-C

শ্রেণি - তৃতীয়

(L-1, L-2, Maths, EVS, W-1, W-2, Numeracy, R-1 & R-2)

মাধ্যম - বাংলা

Name of the Student : .....

Roll No. : ..... Class : 3

Name of the School : .....

## শিক্ষক ও শিক্ষার্থীর জন্য নির্দেশনা

- প্রশ্ন নং 1 থেকে 58 পর্যন্ত প্রশ্নগুলোর শুদ্ধ বিকল্পটি বেছে নিয়ে শিক্ষার্থী OMR শীট-এর বৃত্তগুলো পূরণ করবেন।
- প্রশ্ন নং 59 থেকে 61 (e) পর্যন্ত প্রশ্নের উত্তরগুলি প্রশ্নপত্রের নির্দিষ্ট স্থানে ছাত্র-ছাত্রীদের লিখতে দেবেন। শিক্ষক শিক্ষার্থীদের উত্তরগুলো পরীক্ষা করবেন এবং নম্বর বহির্মূল্যায়নকারীর উপস্থিতিতে OMR পত্রে পূরণ করবেন।
- মূল্যায়ন নির্দেশাবলী, 2025-এ উল্লেখিত নির্দেশামতে প্রশ্ন নং 62 ও 63 এর মূল্যায়ন করা হবে।
- শিক্ষার্থীদের নাম, ক্রমিক নং, শ্রেণি, বিদ্যালয়ের নাম সংক্রান্ত যাবতীয় তথ্য শিক্ষার্থী পূরণ করবেন।

## (Language -1)

### রিয়ানের কোঠাটি

রিয়ানের কোঠাটি ওদের বাড়ির উত্তরদিকে। ওদের বসার ঘর থেকে ওর ঘরটিতে যাওয়া যায়। কোঠাটিতে দুটি জানালা আছে। পূর্ব দিকের জানালার পাশে যে চেয়ার-টেবিল রাখা আছে সেখানে বসে রিয়ান পড়াশোনা করে। সে সেখানে তার বইপত্রগুলো গুছিয়ে রাখে। ভোরবেলা টেবিলটির উপরে সূর্যের আলো এসে পড়ে। সকালের রোদের আমেজ নিয়ে পড়াশোনা করা ভালো। রিয়ান সেজন্য সকালে পড়তে ভালোবাসে। কোঠাটির দক্ষিণদিকের জানালাটির পাশে ওর খাটটি আছে। গরমের দিনে এই জানালা দিয়ে পাশের খোলা মাঠটি থেকে খুব সুন্দর বাতাস বয়ে আসে। সেই সময় জানালা খুলে বিছানায় শুতে খুব আরাম। এই কোঠাটিতে ঢোকার দরজাটির পশ্চিমদিকে একটি আলমারি আছে। সেটিতে চারটি তাক আছে। আলমারিটির প্রথম তাকটিতে রিয়ান ওর খেলনা গাড়িগুলো রাখে এবং দ্বিতীয় তাকটিতে বড়ো পুতুলগুলো রাখে। তৃতীয় তাকটিতে ওর প্রিয় বইগুলো রাখে। আলমারিটির চতুর্থ তাকটিতে ওর খেলার জিনিসগুলো রাখে। আলমারিটির প্রতিটি জিনিস রিয়ানের খুব পছন্দের। সে আলমারিটিতে তালা মেরে রাখে। ফলে আলমারির জিনিসপত্রগুলো সুরক্ষিত থাকে। এই কোঠাটি রিয়ানের খুব প্রিয়।

ওপরের অনুচ্ছেদটি পড়ে নীচের প্রশ্নগুলোর শুদ্ধ উত্তর বেছে নাও—

1. রিয়ানের কোঠাটির দক্ষিণদিকের জানালাটির পাশে কী আছে?
   (A) খাট (B) আলমারি (C) চেয়ার-টেবিল (D) বই-পত্র

2. রিয়ান আলমারিটির চতুর্থ তাকে কী রাখে?
   (A) খেলনা গাড়িগুলো (B) বড়ো পুতুলগুলো
   (C) খেলার জিনিসগুলো (D) প্রিয় বইগুলো

3. সে আলমারিটিতে কেন তালা মেরে রাখে?
   (A) কারণ আলমারিটিতে চারটি তাক আছে
   (B) কারণ এর ফলে আলমারির জিনিসপত্র সুরক্ষিত থাকে
   (C) কারণ আলমারিটি খুব পুরোনো ছিল
   (D) কারণ আলমারিটি দরজার পাশে ছিল

4. নীচের কোনটি 'গ্রন্থ' শব্দের সমার্থক শব্দ?
   (A) পত্র (B) গল্প (C) কাগজ (D) বই

5. "টেবিলটিতে বইগুলো সাজিয়ে রেখেছে।" - এই বাক্যে একবচনযুক্ত শব্দ কোনটি?
   (A) বইগুলো (B) টেবিলটিতে (C) সাজিয়ে (D) রেখেছে

## আত্মবিশ্বাস

নীতা, পম্পি, গার্গী ও বর্ষা - এই চারজনের গলায় গলায় ভাব। অবসর সময়ে ওরা গান গাইতে, নাচতে, খেলতে এবং ফুলগাছ বুনতে ভালোবাসে। পম্পি ফুলগাছ বুনতে এবং বর্ষা খেলতে ভালোবাসে। নীতা খুব সুন্দর গান গায়। গার্গী নাচতে ভালোবাসে। যদিও ওরা নিজেদের পছন্দ অনুযায়ী এগুলো করে ওরা কিন্তু খুব লাজুক স্বভাবের। বিদ্যালয় সপ্তাহ বা গ্রামে অনুষ্ঠিত প্রতিযোগিতাগুলোতে ওরা অংশগ্রহণ করে না। এই প্রতিযোগিতাগুলোতে অংশগ্রহণ করলে যে ওদের লুকিয়ে থাকা প্রতিভার বিকাশ হবে তা ওদের মা-বাবা ওদের প্রত্যেককে বুঝিয়েছেন। পরিবারের অন্য সদস্যরাও ওদের এগিয়ে যাওয়ার উৎসাহ দিলেন। সবার কথা শুনে ওরা উৎসাহিত হল এবং মনেও সাহস বাড়ল। এবছর ওরা বিদ্যালয় সপ্তাহে অংশগ্রহণ করল। নীতা গান গেয়ে প্রথম পুরস্কার পেল। গার্গী আধুনিক নৃত্যে প্রথম এবং বিহু নৃত্যে দ্বিতীয় স্থান লাভ করল। বর্ষা ক্রীড়া প্রতিযোগিতায় অংশগ্রহণ করল। ওরা সবাই প্রতিযোগিতায় অংশগ্রহণ করার জন্য শিক্ষকরাও খুশি হলেন। তাঁরা ওদের খুব প্রশংসা করলেন। ওদেরও আত্মবিশ্বাস বাড়ল। এরপর থেকে ওরা বিদ্যালয়ে বিজ্ঞুরাভা দিবস, শিল্পী দিবস ইত্যাদিতে অনুষ্ঠিত সাংস্কৃতিক অনুষ্ঠানগুলোতে নতুন উদ্যমে অংশগ্রহণ করতে শুরু করল। গ্রামে অনুষ্ঠিত বিভিন্ন প্রতিযোগিতায় অংশগ্রহণ করে পুরস্কার লাভ করল। ভবিষ্যতেও ওরা এধরনের অনুষ্ঠানগুলোতে অংশগ্রহণ করবে বলে সংকল্প নিল।

ওপরের অনুচ্ছেদটি পড়ে নীচের প্রশ্নগুলোর শুদ্ধ উত্তর বেছে নাও—

6. অবসর সময়ে বর্ষা কী করতে ভালোবাসে?
(A) নাচতে (B) গান গাইতে (C) ফুলগাছ বুনতে (D) খেলতে

7. বিহু নৃত্যে কে দ্বিতীয় স্থান লাভ করেছিল?
(A) পম্পি (B) বর্ষা (C) গার্গী (D) নীতা

8. বর্ষা কোন প্রতিযোগিতায় অংশগ্রহণ করেছিল?
(A) ক্রীড়া (B) বিহু নৃত্য (C) আধুনিক নৃত্য (D) গান গাওয়া

9. নীতারা ওদের বিদ্যালয়ের সাংস্কৃতিক অনুষ্ঠানগুলোতে কেন নতুন উদ্যমে অংশগ্রহণ করতে শুরু করল?
(A) কারণ ওদের আত্মবিশ্বাস বেড়ে গিয়েছিল
(B) কারণ ওরা সংকল্প নিয়েছিল
(C) কারণ শিক্ষকরা ওদের প্রশংসা করেছিলেন
(D) কারণ শিক্ষকরা ওদের ভালোবাসতেন

10. নীচের কোনটি 'ক্রীড়া' শব্দের সমার্থক শব্দ?
(A) গান (B) পুরস্কার (C) সংকল্প (D) খেলা

11. "নীতাকে সবাই আশীর্বাদ করল।" - এই বাক্যে বহুবচনযুক্ত শব্দ কোনটি?
(A) নীতাকে (B) সবাই (C) আশীর্বাদ (D) করল



3/15

## ফুল

আমরা সবাই ফুল ভালোবাসি। সব ফুলই দেখতে সুন্দর। ফুল আমাদের সবার মনকে আকর্ষিত করে। কিছু ফুলের গন্ধ আছে এবং কিছু আবার গন্ধহীন। গোলাপ, শেফালি, গন্ধরাজ, বকুল ইত্যাদি ফুলগুলো গন্ধযুক্ত ফুল। অন্যদিকে পলাশ, মাদার, জবা, নয়নতারা ইত্যাদি ফুলের গন্ধ নেই। গোলাপ ফুলকে 'ফুলের রানি' বলা হয়। অন্য ফুলের চেয়ে গোলাপ ফুল দেখতে বেশি সুন্দর। লাল, হলুদ, গোলাপি, সাদা, বেগুনি, নীল ইত্যাদি বিভিন্ন রঙের ফুল আছে। ফুলগুলোর ফোটার সময়ও আলাদা আলাদা। কিছু ফুল দিনেরবেলায় ফোটে আবার কিছু ফুল রাতেরবেলায় ফোটে। গোলাপ, জবা, নয়নতারা, করবী ইত্যাদি দিনে ফোটে। শেফালি, হাসনাহানা, রজনীগন্ধা ইত্যাদি ফুল কেবল রাত্রে ফোটে। শেফালি ফুল শরৎ ঋতুতে ফোটে। সেরকমই কপৌ, গন্ধরাজ, পলাশ ইত্যাদি ফুল বসন্ত ঋতুতে ফোটে। গোলাপ, জবা, নয়নতারা ইত্যাদি ফুল প্রত্যেক ঋতুতেই ফোটে। পদ্ম, শাপলা ইত্যাদি ফুল জলে ফোটে। ফুলগুলো আমাদের পরিবেশ সুন্দর করে রাখে এবং মনে আনন্দ প্রদান করে।

ওপরের অনুচ্ছেদটি পড়ে নীচের প্রশ্নগুলোর শুদ্ধ উত্তর বেছে নাও—

12. নীচের কোন ফুলের গন্ধ আছে?

(A) পলাশ (B) মাদার (C) নয়নতারা (D) শেফালি

13. নীচের কোন ফুলটি কেবল রাত্রে ফোটে?

(A) রজনীগন্ধা (B) পলাশ (C) নয়নতারা (D) গোলাপ

14. গোলাপ ফুলকে কেন 'ফুলের রানি' বলা হয়?

(A) কারণ এই ফুল কেবল দিনেরবেলায় ফোটে
(B) কারণ এই ফুল প্রতিটি ঋতুতে ফোটে
(C) কারণ এই ফুল অন্য ফুলের চেয়ে সুন্দর
(D) কারণ এটি গন্ধযুক্ত ফুল

15. নীচের কোনটি 'রাত' শব্দের সমার্থক শব্দ?

(A) নিশা (B) দিন (C) গন্ধ (D) শরৎ

16. 'ফুলগুলো পরিবেশ সুন্দর করে রাখে'। - এই বাক্যে বহুবচনযুক্ত শব্দ কোনটি?

(A) পরিবেশ (B) ফুলগুলো (C) করে (D) সুন্দর

## (Language-2)

**Read the following passage and answer the questions from Q.No.17 to Q.No.19.**

### A VISIT TO THE ZOO

Last Sunday, I visited the Assam State Zoo with my parents. I saw a few monkeys sitting near the entry gate and eating bananas. Some others were jumping from one tree to another. I saw hornbills and parrots with red, orange and yellow feathers in a big cage. There were other birds like pigeon, dove and peacock. At a distance, I saw a deer running in the field. I saw a few tigers and lions also. Elephants were roaming in large spaces. They were huge. On moving forward, I saw some ducks swimming in a pond. Their feathers were shining in the sunlight. I saw a one-horned rhino. Rhinos have rough and thick skin. It is our state animal. It was a nice experience. I want to visit the zoo again.

17. What was seen in a big cage ?

(A) deer and monkeys (B) tigers and lions

(C) hornbills and parrots (D) elephants and rhinos

18. "Their feathers were shining in the sunlight." What does 'their' refer to here ?

(A) hornbills (B) ducks (C) parrots (D) pigeons

19. Which of the following is opposite in meaning to the word 'smooth' ?

(A) rough (B) large (C) big (D) thick

**Read the following passage and answer the questions from Q.No.20 to Q.No.23.**

### FRIENDS

There lived a happy and playful crow named Crawie. He never liked to stay in one place for a long time. He loved to learn new things every day. He flew from one place to another. One day, he saw a group of squirrels playing in a tall oak tree. He flew up to the tree and asked the squirrels, "What are you doing?" "We are playing hide-and-seek!" one squirrel replied. Crawie wanted to join the game, but he was too big to hide in the tree. There were two rabbits Bunny and Coco. They lived in a burrow near the tree. They heard the crow and the squirrel talking. Without wasting any time, they came jumping towards the tree. They too wanted to play. So, the squirrel Munchy, came up with an idea. He told Crawie, Bunny and Coco to hide behind the trees and bushes. The squirrels would come looking for them. It was the best game the crow and rabbits had ever played. From that day, they became friends with the squirrels.



5/15

20. Who loved to learn new things every day ?

(A) Munchy (B) Crawie (C) Bunny (D) Coco

21. "He never liked to stay in one place for a long time." Who is 'he' referred to here ?

(A) Crawie (B) Munchy (C) Coco (D) Bunny

22. Which of the following is opposite in meaning to the word 'short' ?

(A) near (B) tall (C) new (D) best

23. Which of the following is a naming word in the given sentence ?

'The squirrels would come looking for them.'

(A) squirrels (B) would (C) come (D) looking

**Read the following passage and answer the questions from Q.No.24 to Q.No.26.**

## PENCIL

A pencil is used for writing and drawing. It is made up of wood and plastic. It is long and t There is a special black material inside the pencil called graphite. The graphite of a pencil helps u draw and write on a paper. To use a pencil, we sharpen its tip with a sharpener. Some pencils h eraser at their end. There are different types of pencils specially used for drawing such as HB, 2B, 4B and 8B. The higher 'B' number pencils have much softer and darker graphite. Pencils are used by stude teachers, artists and many others. They can be carried easily and are easy to use.

24. What is the special black material inside a pencil called ?

(A) eraser (B) plastic (C) graphite (D) wood

25. Which of the following is opposite in meaning to the word 'short' ?

(A) long (B) thin (C) special (D) easy

26. Which of the following is a naming word in the given sentence ?

'A pencil is used for writing and drawing.'

(A) writing (B) pencil (C) is (D) used

## Mathematics

27. নিচের সংখ্যাটিতে ঘের দেওয়া অংকটির স্থানীয় মান কত?

১ ৫ ০

(A) ০ (B) ১০ (C) ৫০ (D) ১০০

28. নিচে দেওয়া ক্যালেণ্ডারটিতে ৩১ ডিসেম্বর, ২০২৪ তারিখে কী বার হবে?

| ডিসেম্বর, ২০২৪ | | | | | | |
|---|---|---|---|---|---|---|
| রবি | সোম | মঙ্গল | বুধ | বৃহস্পতি | শুক্র | শনি |
| ১ | ২ | ৩ | ৪ | ৫ | ৬ | ৭ |
| ৮ | ৯ | ১০ | ১১ | ১২ | ১৩ | ১৪ |
| ১৫ | ১৬ | ১৭ | ১৮ | ১৯ | ২০ | ২১ |
| ২২ | ২৩ | ২৪ | ২৫ | ২৬ | ২৭ | ২৮ |
| ২৯ | ৩০ | ৩১ | | | | |

(A) রবিবার (B) সোমবার (C) মঙ্গলবার (D) বুধবার

29. ৪৯৯ এর পূর্ববর্তী সংখ্যাটি কী?

(A) ৪৯০ (B) ৪৯১ (C) ৪৯৮ (D) ৫০০

30. ৬২৪ এবং ২৫৮ এর যোগফল কত?

(A) ৮৮২ (B) ৮৭২ (C) ৯৮২ (D) ৮৭১

31. ২ মিটার ৫০ সে.মি.এ কত সেন্টিমিটার?

(A) ২১৫ সে.মি. (B) ২৫০ সে.মি. (C) ২০৫০ সে.মি. (D) ২৫০০ সে.মি.

32. নিচে দেওয়া ঘুড়িটিতে কয়টি কোনা আছে ?

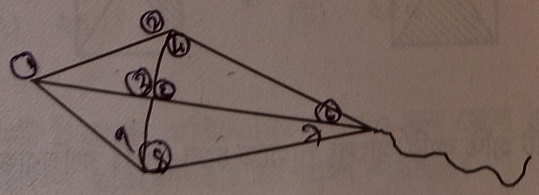

(A) ২ (B) ৪ (C) ৬ (D) ৮

33. নিচে দেওয়া ঘড়িটিতে কত সময় দেখাচ্ছে?



(A) ১২টা বেজেছে (B) ১টা বেজেছে (C) ২টা বেজেছে (D) ৩টা বেজেছে

34. ৯০৮ এর বিস্তৃত রূপ কোনটি?

(A) ৯০০+০+৮ (B) ৯০০+০+৮০ (C) ৯০০+৯০+৮ (D) ৯০০+৮+৮

35. নিচের নমুনাটির খালি স্থানে কী সংখ্যা বসিবে?

| | | | | |
|---|---|---|---|---|
| ৩৩৮ | ৩৩৬ | ৩৩৪ | ? | ৩৩০ |

(A) ৩০৩ (B) ৩৩২ (C) ৩৪৩ (D) ৩৩৬

36. নিচে দেওয়া আকৃতিটিতে কয়টি কর্ণ আছে?

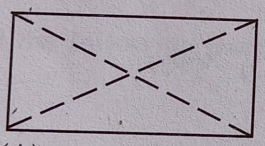

(A) ১ (B) ২ (C) ৩ (D) ৪

37. নিচে দেওয়া নমুনাটির পরবর্তী ছবি কী হবে?



(A) 
(B) 
(C) 
(D) 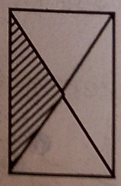

38. কাজিরাঙায় ৩৭৫ টি হাতি ছিল। বন্যার সময় সেখান থেকে ১৬৮ টি হাতি কার্বি আংলং পাহাড়ে চলে গেল। কাজিরাঙায় কয়টি হাতি বাকি থাকিল?

(A) ২১৩ (B) ২০৭ (C) ২০৫ (D) ২০৩

39. ২ কিলোগ্রামে কত গ্রাম থাকে?

(A) ২০০০ গ্রাম (B) ২০০ গ্রাম (C) ২০ গ্রাম (D) ২ গ্রাম

40. নিচের ছবিটিতে ফিতাটির দৈর্ঘ্য কত?

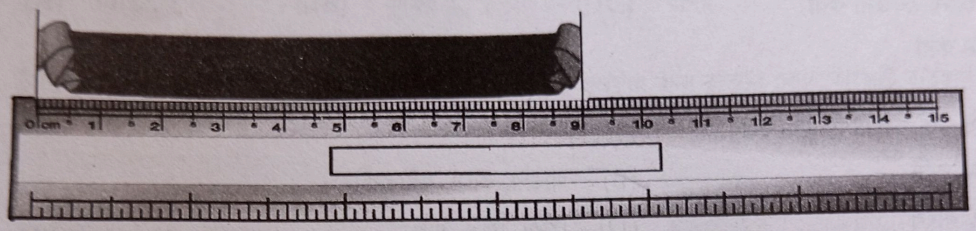


(A) ১০ সে.মি. (B) ৯ সে.মি. (C) ৮ সে.মি. (D) ৭ সে.মি.

41. নিচে দেওয়া চিত্রে দাগাটির ওজন কত?




(A) ১০ কি.গ্রা. (B) ১ কি.গ্রা. (C) ১০০ কি.গ্রা. (D) ১০ গ্রাম

42. নিচের সংখ্যাগুলির মধ্যে সবচেয়ে ছোটো সংখ্যা কোনটি?

৪৭৪, ৪৭৬, ৭৪৪, ৭৬৪

(A) ৪৭৪ (B) ৭৪৪ (C) ৭৬৪ (D) ৪৭৬

43. ৫৪০ থেকে ২৮০ বিয়োগ করিলে কী পাওয়া যায়?

(A) ২৪০ (B) ২৫০ (C) ২৬০ (D) ২৭০

44. একটি চিত্রাংকন প্রতিযোগিতায় ১৬০ জন ছেলে এবং ১৩৮ জন মেয়ে অংশগ্রহণ করেছিল। মোট কতজন ছেলে-মেয়ে চিত্রাংকন প্রতিযোগিতায় অংশগ্রহণ করেছিল?

(A) ৩৯৮ (B) ২৯৮ (C) ২৮৮ (D) ১৮৮

## EVS

45. অ্যাম্বুলেন্স আমাদের নিম্নলিখিত কোন সুবিধাটি প্রদান করে থাকে?
(A) রোগীদের চিকিৎসালয়ে আনা-নেওয়া করা
(B) যাত্রী আনা-নেওয়া করা
(C) বয়-বস্তু আনা-নেওয়া করা
(D) মাটি খনন করা

46. দেহরক্ষক খাদ্যের শুদ্ধ গ্রুপটি চিনাক্ত কর।
(A) ভাত, সিম, রুটি
(B) গাজর, আম, হরীতকী
(C) ডিম, মাছ, মাংস
(D) পিঠা, ডিম, মাছ

47. শাল গাছকে কেন বৃক্ষজাতীয় উদ্ভিদ বলা হয়?
(A) মাটিতে লতিয়ে চলার জন্য
(B) এর কান্ড কোমল ও লিকলিকে হওয়ার জন্য
(C) খাটো ও ঝোপযুক্ত হওয়ার জন্য
(D) ইহার কান্ড মোটা ও শক্ত হওয়ার জন্য

48. তুমি তোমার মার বোনকে কী বলে ডাকবে?
(A) পিসি
(B) মাসি
(C) দিদি
(D) ঠাকুমা

49. বড়ো মুখযুক্ত পাত্র থেকে পানীয় জল আহরণের জন্য কী ধরনের উপকরণ ব্যবহার করা উচিত?
(A) চামচ
(B) হাতল না থাকা মগ
(C) দীর্ঘ হাতলযুক্ত মগ
(D) গেলাস

50. নিম্নলিখিত কোনটির নিজস্ব আলো আছে?
(A) সূর্য
(B) চন্দ্র
(C) গ্রহ
(D) শুক্র

51. খুব কাছের থেকে টেলিভিশন, মোবাইল ফোন দেখলে কি হতে পারে?
(A) রক্ত সঞ্চালয় বৃদ্ধি হয়
(B) চোখের ক্ষতি হয়
(C) দেহ সতেজ রাখে
(D) রোগ থেকে রক্ষা পাওয়া যায়

52. বাড়িতে আমার মায়ের জমানো বৃষ্টির জল দিয়ে কী করা উচিত?
(A) ফেলে দেবে
(B) বিশুদ্ধ না করেই পান করবে
(C) গাছপালার জলের জন্য এটি ব্যবহার করবে
(D) বিশুদ্ধ না করেই রান্নার জন্য ব্যবহার করবে



10/15

53. তুমি কীভাবে তোমার পরিবারের সবচেয়ে কনিষ্ঠ সদস্যের প্রতি ভালবাসা দেখাবে?
(A) তাদের সাথে খেলা না করে (B) তাদের বিরক্ত করে
(C) তাদের অবহেলা করে (D) তাদের সাথে সময় অতিবাহিত করে

54. নিম্নলিখিত কোন প্রাণীটি বুকে হেঁটে চলে?
(A) ব্যাঙ (B) কুমির (C) বাণর (D) খরগোশ

55. ট্রাফিক লাইট লাল হলে নীচের চিত্রের মেয়েটি রাস্তা পার হওয়ার জন্য রাস্তার কোন অংশটি ব্যবহার করা উচিত?




(A) "P" (B) "R" (C) "S" (D) "Q"

56. অবসর সময় সঠিক ভাবে কাটানোর জন্য নীচের কোন কাজটি সবচেয়ে বেশি উপযুক্ত হবে? চিহ্নিত কর।
(A) দীর্ঘ সময় ধরে মোবাইল ফোন ব্যবহার করা (B) রূপকথার বই পড়া
(C) পরীক্ষার জন্য পড়া (D) বিদ্যালয়ে যাওয়া

57. নিকিতার খেলার জন্য যথেষ্ট শক্তির প্রয়োজন। তার কি খাবার খাওয়া উচিৎ?
(A) রুটি (B) চিপস্ (C) কমলা (D) চকলেট

58. নীচের কোন ছবিটিতে পূর্ণিমার চাঁদ দেখা যাচ্ছে?
(A) 
(B) 
(C) 
(D) 



11/15

## Writing L1

59. নীচের **যেকোনো একটি** বিষয়ে তিনসারি বাক্য লেখো।

(A) আম

(B) তোমার প্রিয় রং

(C) কবাডি খেলা

.....

.....

.....

## Writing L2

60. Write down the names of three things from **any one** of the pictures given below.





I can see _____

_____

_____

_____



12/15

## Numeracy

61. (a) যোগ করো ঃ

৭৫৩
+ ১৬৭

উত্তর ঃ ৯২০

(b) যোগ করো ঃ

৫৬৯
+ ২৮৩

উত্তর ঃ ৮৫২

(c) বিয়োগ করো ঃ

৮৫৩
− ২৪৫

উত্তর ঃ ৬৯

(d) বিয়োগ করো ঃ

৬৪৩
− ১৮৯

উত্তর ঃ ৫৪

(e) ৪২৮ কে স্থানীয় মান অনুসরণ করে পুঁথি শলাকায় পুঁথি অংকন কর।



## Reading L1

62. ছাত্র-ছাত্রীকে নীচের **যেকোনো একটি** অংশ পড়তে দেবেন—

| | |
|---|---|
| **প্রথম অংশ** | নিতুলের বাড়ি লালুক মৌজার বাঁশবাড়ি গ্রামে।<br>সে তৃতীয় শ্রেণিতে পড়ে।<br>সে নিয়মিত বিদ্যালয়ে যায়। |
| **দ্বিতীয় অংশ** | ভারতের রাজধানী নতুন দিল্লি।<br>সেখানে সংসদ ভবন আছে।<br>এই ভবনটি দেখতে খুব সুন্দর। |
| **তৃতীয় অংশ** | আমাদের ভোরবেলা ঘুম থেকে ওঠা উচিত।<br>ঘুম থেকে উঠে ভালো করে হাত, মুখ ধোয়া উচিত।<br>এই অভ্যাসগুলো আমাদের শরীরকে সুস্থ রাখে। |

## Reading L2

63. Read **any one** of the following frames of your choice.

| | |
|---|---|
| **Frame 1** | Ice cream is tasty.<br>Plants grow with proper care.<br>The fish swims in water. |
| **Frame 2** | The cow eats grass.<br>It is raining heavily now.<br>She likes to draw pictures. |
| **Frame 3** | Tripti went to Kolkata.<br>She came to meet me.<br>Lotus is our national flower. |